Engeneering Drawing

MONTHLY TEST
FEB-26

Q. ID: ITISKILL9658FO

February 2026

GOVT ITI HOLENARASIPURA

Answer Key

Duration: 30 Mins **Total Marks: 6** **Q.ID: ITISKILL9658FO**

1. Which arrow head is correct as per standard? | ಮಾನದಂಡದ ಪ್ರಕಾರ ಯಾವ ಬಾಣದ ಹೆಡ್ ಸರಿಯಾಗಿದೆ?

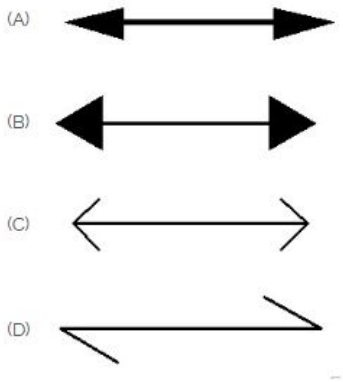

A) B
B) C
C) D
D) A

Answer: D) A

2. Identify the correct aligned system dimension? | ಸರಿಯಾದ ಜೋಡಿಸಲಾದ ಸಿಸ್ಟಮ್ ಆಯಾಮವನ್ನು ಗುರುತಿಸುವುದೇ?

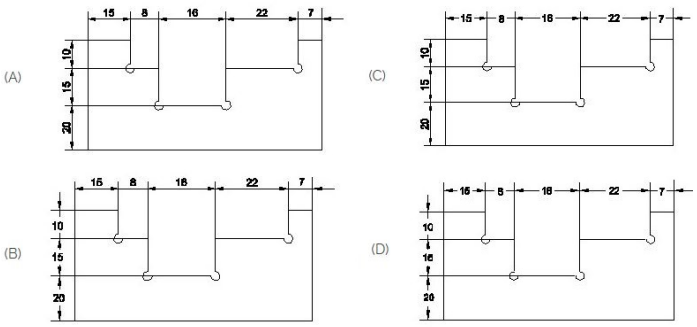

A) D
B) C
C) A
D) B

Answer: C) A

3. Identify the name of instrument? | ಉಪಕರಣದ ಹೆಸರನ್ನು ಗುರುತಿಸುವುದೇ?

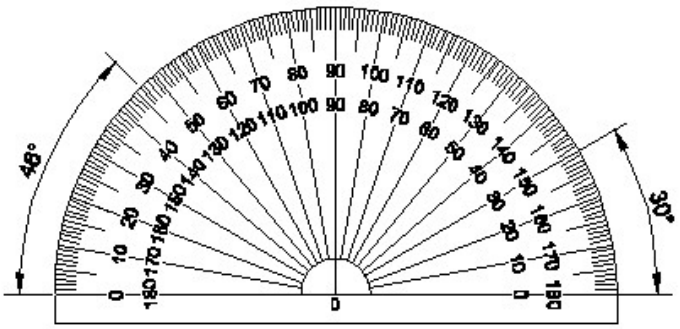

A) French curve | ಫ್ರೆಂಚ್ ಕರ್ವ್
B) Protractor | ಪ್ರೊಟ್ರಾಕ್ಟರ್
C) Set square | ಸೆಟ್ ಸ್ಕ್ವೇರ್
D) T square | ಟಿ ಸ್ಕ್ವೇರ್

Answer: B) Protractor | ಪ್ರೊಟ್ರಾಕ್ಟರ್

4. Which drawing dimension is correct as per IS standard? | IS ಮಾನದಂಡದ ಪ್ರಕಾರ ಯಾವ ರೇಖಾಚಿತ್ರದ ಆಯಾಮವು ಸರಿಯಾಗಿದೆ?

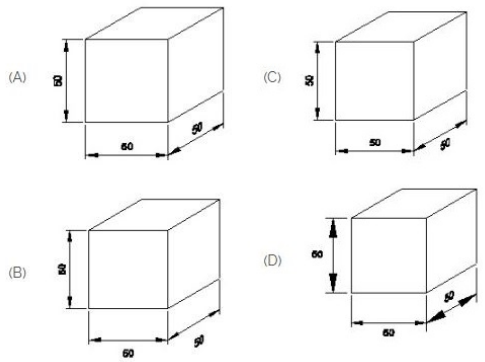

A) B
B) A
C) D
D) C

Answer: B) A

5. Identify the name of the triangle? |ತ್ರಿಕೋನದ ಹೆಸರನ್ನು ಗುರುತಿಸುವುದೇ?

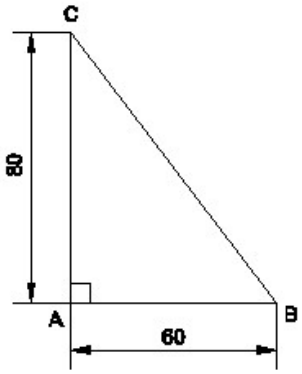

A) Right angle triangle | ಬಲ ಕೋನತ್ರಿಕೋನ
B) Equilateral triangle | ಸಮಕೋನತ್ರಿಕೋನ
C) Isosceles triangle | ಸಮದ್ವಿಬಾಹುತ್ರಿಭುಜ
D) Scalene triangle | ಸ್ಕೇಲಿನ್ ತ್ರಿಕೋನ

Answer: A) Right angle triangle | ಬಲ ಕೋನತ್ರಿಕೋನ

6. Identify the conventional symbol of material? | ವಸ್ತುವಿನ ಕನ್ವೇಷನಲ್ ಚಿಹ್ನೆಯನ್ನು ಗುರುತಿಸಿ?

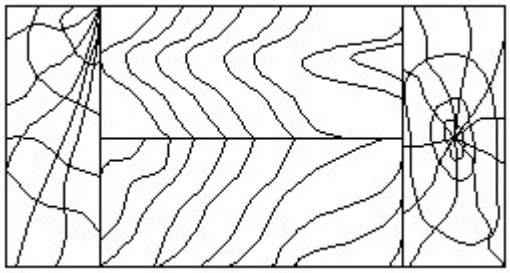

A) Paper | ಪೇಪರ್

B) Lead | ಲೀಡ್

C) Glass | ಗಾಜು

D) Wood | ಮರ

Answer: D) Wood | ಮರ