ITI Quiz - 17-Jun-2026 09:55 AM

Q. ID: ITISKILL9101HV

June 2026 | **Shree Sarvagnya ITI Devar Hipparagi a** | Question Paper

Duration: 60 Mins | **Total Marks: 50** | **ID: ITISKILL9101HV**

Student Name: ______________________ Roll No: ______________________

1. Which transformer is used to measure high voltage? | ಹೆಚ್ಚಿನ ವೋಲ್ಟೇಜ್ ಅನ್ನು ಅಳೆಯಲು ಯಾವ ಟ್ರಾನ್ಸ್ಫಾರ್ಮರ್ ಅನ್ನು ಬಳಸಲಾಗುತ್ತದೆ?

A) Potential transformers | ಸಂಭಾವ್ಯ ಟ್ರಾನ್ಸ್ಫಾರ್ಮರ್‌ಗಳು
B) Current transformers | ಕರೆಂಟ್ ಟ್ರಾನ್ಸ್ಫಾರ್ಮರ್‌ಗಳು
C) Ignition transformers | ಇಗ್ನಿಷನ್ ಟ್ರಾನ್ಸ್ಫಾರ್ಮರ್ಸ್
D) Pulse transformers | ಪಲ್ಸ್ ಟ್ರಾನ್ಸ್ಫಾರ್ಮರ್‌ಗಳು

2. What is smothering in extinguishing of fire? | ಬೆಂಕಿಯನ್ನು ಕಡಿಯುವಲ್ಲಿ ಏನಾಗುತ್ತಿದೆ?

A) Removing the fuel element from the fire | ಬೆಂಕಿಯಿಂದ ಇಂಧನ ಅಂಶವನ್ನು ತೆಗೆದುಹಾಕಲಾಗುತ್ತಿದೆ
B) Isolating the fire from the supply of oxygen | ಆಮ್ಲಜನಕದ ಪೂರೈಕೆಯಿಂದ ಬೆಂಕಿಯನ್ನು ಪ್ರತ್ಯೇಕಿಸುವುದು
C) Adding the fuel element to the fire | ಇಂಧನ ಅಂಶವನ್ನು ಬೆಂಕಿಯಲ್ಲಿ ಸೇರಿಸುವುದು
D) Using of water to lower the temperature | ತಾಪಮಾನವನ್ನು ಕಡಿಮೆ ಮಾಡಲು ನೀರಿನ ಬಳಕೆ

3. Which factor is affected due to the loading effect on measuring instruments? | ಅಳತೆ ಉಪಕರಣಗಳ ಮೇಲೆ ಲೋಡಿಂಗ್ ಪರಿಣಾಮದಿಂದಾಗಿ ಯಾವ ಅಂಶವು ಪ್ರಭಾವಿತವಾಗಿರುತ್ತದೆ?

A) Low influence error | ಕಡಿಮೆ ಪ್ರಭಾವ ದೋಷ
B) High influence error | ಅಧಿಕ ಪ್ರಭಾವ ದೋಷ
C) Low sensitivity | ಕಡಿಮೆ ಸಂವೇದನೆ
D) High sensitivity | ಹೆಚ್ಚಿನ ಸಂವೇದನೆ

4. What is the type of test in domestic wiring installation as shown in the figure? | ದೇಶೀಯ ವೈರಿಂಗ್ ಅನುಸ್ಥಾಪನೆಯಲ್ಲಿನ ಪರೀಕ್ಷೆಯ ಬಗೆ ಏನು?

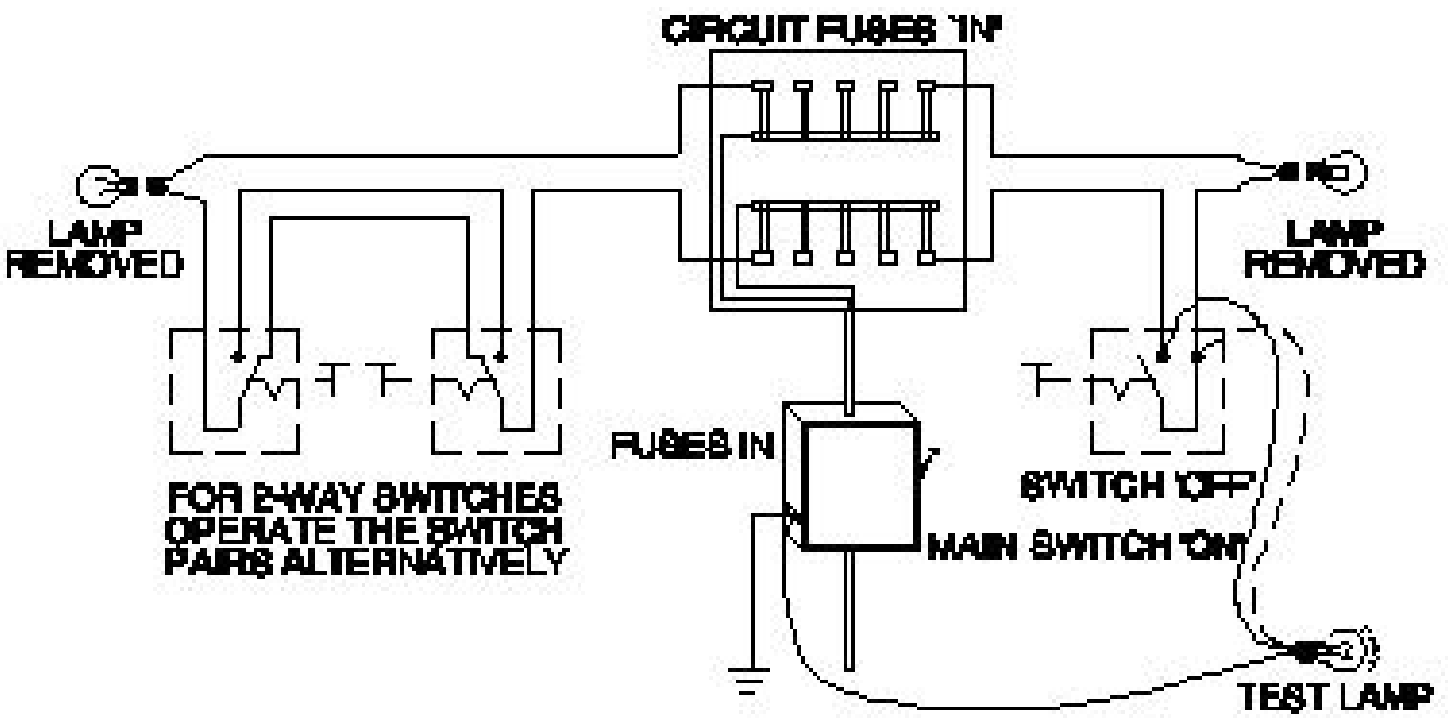

A) Continuity (or) open circuit test | ನಿರಂತರತೆ (ಅಥವಾ) ತೆರೆದ ಸರ್ಕ್ಯೂಟ್ ಪರೀಕ್ಷೆ
B) Insulation resistance test between conductors | ವಾಹಕಗಳ ನಡುವೆ ನಿರೋಧಕ ನಿರೋಧಕ ಪರೀಕ್ಷೆ
C) Polarity test | ಧ್ರುವೀಯತೆಯ ಪರೀಕ್ಷೆ
D) Insulation resistance test between conductors and earth | ವಾಹಕಗಳು ಮತ್ತು ಭೂಮಿಯ ನಡುವೆ ನಿರೋಧನ ಪ್ರತಿರೋಧ ಪರೀಕ್ಷೆ

5. Which is the semiconductor material? | ಅರೆವಾಹಕ ವಸ್ತು ಯಾವುದು?

A) Manganin | ಮಂಗನಿನ್
B) Germanium | ಜರ್ಮೇನಿಯಮ್
C) Eureka | ಯುರೇಕಾ
D) Ebonite | ಎಬೋನೈಟ್

6. What is the SI unit of Flux density? | ಫ್ಲಕ್ಸ್ ಸಾಂದ್ರತೆಯ S.I ಯುನಿಟ್ ಎಂದರೇನು?

A) Tesla
B) Weber
C) Ampere-turns
D) Weber/metre

7. Which type of fire extinguisher is used for fire on electrical equipment? | ವಿದ್ಯುತ್ ಉಪಕರಣಗಳಲ್ಲಿ ಬೆಂಕಿಗೆ ಯಾವ ವಿಧದ ಅಗ್ನಿಶಾಮಕವನ್ನು ಬಳಸಲಾಗುತ್ತದೆ?

A) Halon type | ಹ್ಯಾಲಾನ್ ಟೈಪ್
B) Foam type | ಫೋಮ್ ಪ್ರಕಾರ
C) Gas cartridge water type | ಗ್ಯಾಸ್ ಕಾರ್ಟ್ರಿಡ್ಜ್ ನೀರಿನ ವಿಧ
D) Stored pressure water type | ಶೇಖರಿಸಲಾದ ಒತ್ತಡದ ನೀರಿನ ಪ್ರಕಾರ

8. Which is the waste disposal method that produces the heat? | ಶಾಖವನ್ನು ಉತ್ಪತ್ತಿ ಮಾಡುವ ತ್ಯಾಜ್ಯ ವಿಲೇವಾರಿ ವಿಧಾನ ಯಾವುದು?

A) Composting | ಮಿಶ್ರಗೊಬ್ಬರ
B) Incineration | ಭಸ್ಮೀಕರಣ
C) Waste compaction | ತ್ಯಾಜ್ಯ ಸಂಕೋಚನ
D) Landfill | ಲ್ಯಾಂಡ್ಫಿಲ್

9. What is the name of the tool as shown in the figure? | ಚಿತ್ರದಲ್ಲಿ ತೋರಿಸಿರುವಂತೆ ಉಪಕರಣದ ಹೆಸರೇನು?

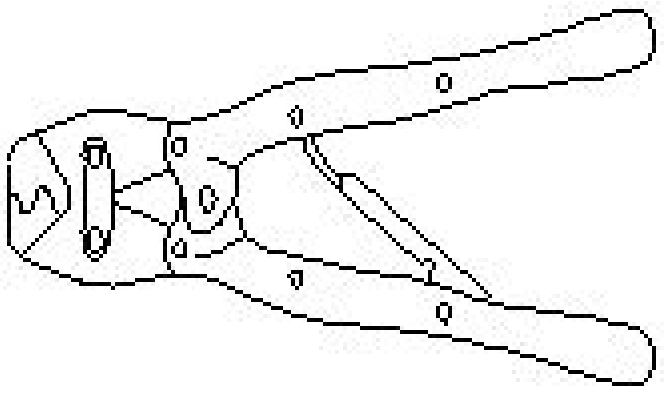

A) Wire stripper | ವೈರ್ ಸ್ಟ್ರಿಪ್ಪರ್
B) Side cutting plier | ಸೈಡ್ ಕಟ್ಟಿಂಗ್ ಪ್ಲಾಯರ್
C) Cutting plier | ಪ್ರಿಯರ್ ಕತ್ತರಿಸುವುದು
D) Crimping tool | ಕ್ರಿಂಪಿಂಗ್ ಸಾಧನ

---

10. What is the value of line current if phase current is 20 Amp in star connection? | ಸ್ಟಾರ್ ಕನೆಕ್ಷನದಲ್ಲಿ ಹಂತದ ವಿದ್ಯುತ್ 20 ಆಂಪ್ಸ್ ಆಗಿದ್ದರೆ ಲೈನ್ ಕರೆಂಟ್‌ನ ಮೌಲ್ಯ ಎಷ್ಟು?

A) 10 A
B) 11.56 A
C) 17.3 A
D) 20 A

---

11. Calculate the value of shunt resistance required to measure 10 mA with one mA meter having resistance of 27ohms. | 27ohms ನ ಪ್ರತಿರೋಧವನ್ನು ಹೊಂದಿರುವ ಒಂದು mA ಮೀಟರ್‌ನೊಂದಿಗೆ 10 mA ಅನ್ನು ಅಳೆಯಲು ಅಗತ್ಯವಿರುವ ಷಂಟ್ ಪ್ರತಿರೋಧದ ಮೌಲ್ಯವನ್ನು ಲೆಕ್ಕಹಾಕಿ.

A) 0.3 Ω
B) 300 Ω
C) 30 Ω
D) 3 Ω

---

12. What is the term for the time taken by a fuse to interrupt the circuit in fault? | ಸರ್ಕ್ಯೂಟ್ ದೋಷದಲ್ಲಿ ಅಡ್ಡಿಪಡಿಸಲು ಫ್ಯೂಸ್ ತೆಗೆದುಕೊಂಡ ಸಮಯಕ್ಕೆ ಯಾವ ಪದವು?

A) Fusing current | ಸಮ್ಮಿಳನ ಪ್ರಸ್ತುತ
B) Cut-off factor | ಕಟ್-ಆಫ್ ಫ್ಯಾಕ್ಟರ್
C) Fusing factor | ಬೆಸೆಯುವಿಕೆಯ ಅಂಶ
D) Time factor | ಸಮಯ ಅಂಶ

---

13. Which types of accessories are used to tap the supply for a portable appliance? | ಪೋರ್ಟಬಲ್ ಅಪ್ಲೈಯನ್ಸ್‌ಗೆ ಪೂರೈಕೆಯನ್ನು ಟ್ಯಾಪ್ ಮಾಡಲು ಯಾವ ರೀತಿಯ ಪರಿಕರಗಳನ್ನು ಬಳಸಲಾಗುತ್ತದೆ?

A) Holding accessories | ಹೋಲ್ಡಿಂಗ್ ಬಿಡಿಭಾಗಗಳು
B) Outlet accessories | ಔಟ್ಲೆಟ್ ಬಿಡಿಭಾಗಗಳು
C) Controlling accessories | ನಿಯಂತ್ರಿಸುವ ಬಿಡಿಭಾಗಗಳು
D) Safety accessories | ಸುರಕ್ಷತಾ ಬಿಡಿಭಾಗಗಳು

---

14. What is the unit of electric charge? | ವಿದ್ಯುದಾವೇಶದ ಘಟಕ ಎಂದರೇನು?

A) Watt
B) Volt
C) Coulomb
D) Ampere

---

15. What is the relation between the line current (IL) and phase current (IP) in delta connected system? | ಡೆಲ್ಟಾ ಸಂಪರ್ಕ ವ್ಯವಸ್ಥೆಯಲ್ಲಿ ಲೈನ್ ಕರೆಂಟ್ (ಐಎಲ್) ಮತ್ತು ಫೇಸ್ ಕರೆಂಟ್ (ಐಪಿ) ನಡುವಿನ ಸಂಬಂಧ ಏನು?

A) IL = □ 3 IP
B) IL = 3 IP
C) IL = IP
D) IL = IP /□ 3

---

16. Which material is used to make the core of power transformer? | ಪವರ್ ಟ್ರಾನ್ಸ್‌ಫಾರ್ಮರ್‌ನ ಕೋರ್ ಅನ್ನು ತಯಾರಿಸಲು ಯಾವ ವಸ್ತುವನ್ನು ಬಳಸಲಾಗುತ್ತದೆ?

A) Cold rolled grain oriented steel | ಕೋಲ್ಡ್ ರೋಲ್ಡ್ ಗ್ರೇನ್ ಓರಿಎಂಟೆಡ್ ಸ್ಟೀಲ್
B) Soft iron | ಸಾಫ್ಟ್ ಕಬ್ಬಿಣ
C) Copper alloy | ತಾಮ್ರದ ಮಿಶ್ರಲೋಹ
D) Hot rolled steel | ಹಾಟ್ ರೋಲ್ಡ್ ಸ್ಟೀಲ್

---

17. What is the effect on CT if its secondary is kept open? | ಅದರ ದ್ವಿತೀಯಕವನ್ನು ತೆರೆದಿದ್ದರೆ CT ಯಲ್ಲಿನ ಪರಿಣಾಮವೇನು?

A) Volt ampere capacity increases | ವೋಲ್ಟ್ ಆಂಪಿಯರ್ ಸಾಮರ್ಥ್ಯ ಹೆಚ್ಚಾಗುತ್ತದೆ
B) CT primary burns out | CT ಪ್ರಾಥಮಿಕ ಬರ್ನ್ಸ್ ಔಟ್
C) Volt ampere capacity reduces | ವೋಲ್ಟ್ ಆಂಪಿಯರ್ ಸಾಮರ್ಥ್ಯ ಕಡಿಮೆಯಾಗುತ್ತದೆ
D) CT secondary winding burns out | ಸಿಟಿ ಸೆಕೆಂಡರಿ ವಿಂಡ್ಕಿಂಗ್ ಬರ್ನ್ಸ್ ಔಟ್

---

18. Which wiring is suitable for temporary installations? | ತಾತ್ಕಾಲಿಕ ಅನುಸ್ಥಾಪನೆಗೆ ಯಾವ ವೈರಿಂಗ್ ಸೂಕ್ತವಾಗಿದೆ?

A) PVC conduit wiring | ಪಿವಿಸಿ ವಾಹಿನಿ ವೈರಿಂಗ್
B) Cleat wiring | ಸ್ವಚ್ಛವಾದ ವೈರಿಂಗ್
C) Metal conduit wiring | ಮೆಟಲ್ ಕಾಂಡ್ಯೂಟ್ ವೈರಿಂಗ್
D) Concealed wiring | ಮರೆಮಾಚುವ ವೈರಿಂಗ್

---

19. What will happen to PVC insulation in cable carries excess current continuously for long period? | ಕೇಬಲ್ಲಲ್ಲಿ ಪಿವಿಸಿ ನಿರೋಧನಕ್ಕೆ ಏನಾಗುವುದು ದೀರ್ಘಾವಧಿಯವರೆಗೆ ನಿರಂತರ ಪ್ರವಾಹವನ್ನು ಸಾಗಿಸುತ್ತದೆ?

A) Voltage drop decreases | ವೋಲ್ಟೇಜ್ ಡ್ರಾಪ್ ಕಡಿಮೆಯಾಗುತ್ತದೆ
B) Voltage drop increases | ವೋಲ್ಟೇಜ್ ಡ್ರಾಪ್ ಹೆಚ್ಚಾಗುತ್ತದೆ
C) Insulation resistance decreases | ನಿರೋಧನ ಪ್ರತಿರೋಧ ಕಡಿಮೆಯಾಗುತ್ತದೆ
D) Insulation resistance increases | ನಿರೋಧನ ಪ್ರತಿರೋಧ ಹೆಚ್ಚುತ್ತದೆ

---

20. Why the load of a power transformer is disconnected before the off load tap changing operation? | ಆಫ್ ಲೋಡ್ ಟ್ಯಾಪ್ ಬದಲಾಯಿಸುವ ಕಾರ್ಯಾಚರಣೆಯ ಮೊದಲು ಪವರ್ ಟ್ರಾನ್ಸ್‌ಫಾರ್ಮರ್‌ನ ಲೋಡ್ ಏಕೆ ಸಂಪರ್ಕ ಕಡಿತಗೊಂಡಿದೆ?

A) To disconnect the moving contact of the diverter | ದಿವಸದ ಚಲಿಸುವ ಸಂಪರ್ಕವನ್ನು ಕಡಿತಗೊಳಿಸಲು
B) To avoid the heavy sparking at the contact points | ಸಂಪರ್ಕ ಬಿಂದುಗಳಲ್ಲಿ ಭಾರೀ ಸ್ಪಾರ್ಕಿಂಗ್ ತಪ್ಪಿಸಲು
C) To provide an electrical isolation for the windings | ವಿಂಡ್ಗಳಿಗೆ ವಿದ್ಯುತ್ ಪ್ರತ್ಯೇಕತೆಯನ್ನು ಒದಗಿಸಲು
D) To disconnect the tappings from neutral point | ತಟಸ್ಥ ಬಿಂದುವಿನಿಂದ ಟ್ಯಾಪಿಂಗ್‌ಗಳನ್ನು ಕಡಿತಗೊಳಿಸಲು

---

21. When the neutral current is zero in 3 phase system? | 3 ಹಂತದ ವ್ಯವಸ್ಥೆಯಲ್ಲಿ ನ್ಯೂಟ್ರಲ್ ಕರೆಂಟ್ ಶೂನ್ಯವಾಗಿದ್ದಾಗ?

A) 3 phase domestic load | 3 ಹಂತದ ಡೊಮೆಸ್ಟಿಕ್ ಲೋಡ್

B) Balanced star system | ಸಮತೋಲಿತ ಸ್ಟಾರ್ ಸಿಸ್ಟಮ್

C) Unbalanced star system | ಅಸಮತೋಲಿತ ಸ್ಟಾರ್ ವ್ಯವಸ್ಥೆ

D) 3 phase commercial load | 3 ಹಂತದ ಕಮರ್ಷಿಯಲ್ ಲೋಡ್

---

22. Which type of capacitor is used for space electronics? | ಸ್ಪೇಸ್ ಎಲೆಕ್ಟ್ರಾನಿಕ್ಸ್ ಯಾವ ರೀತಿಯ ಕೆಪಾಸಿಟರ್ ಅನ್ನು ಬಳಸಲಾಗುತ್ತದೆ?

A) Electrolytic-Tantalum type | ವಿದ್ಯುದ್ವಿಚ್ಛೇದ್ಯ-ತಾಂಟಲಮ್ ವಿಧ

B) Plastic film type | ಪ್ಲಾಸ್ಟಿಕ್ ಫಿಲ್ಮ್ ಪ್ರಕಾರ

C) Ceramic disc type | ಸೆರಾಮಿಕ್ ಡಿಸ್ಕ್ ಪ್ರಕಾರ

D) Electrolytic-Aluminium type | ವಿದ್ಯುದ್ವಿಚ್ಛೇದ್ಯ-ಅಲ್ಯೂಮಿನಿಯಮ್ ವಿಧ

---

23. What is the name of the circuit as shown in the figure? | ಚಿತ್ರದಲ್ಲಿ ತೋರಿಸಿರುವಂತೆ ಸರ್ಕ್ಯೂಟ್‌ನ ಹೆಸರೇನು?

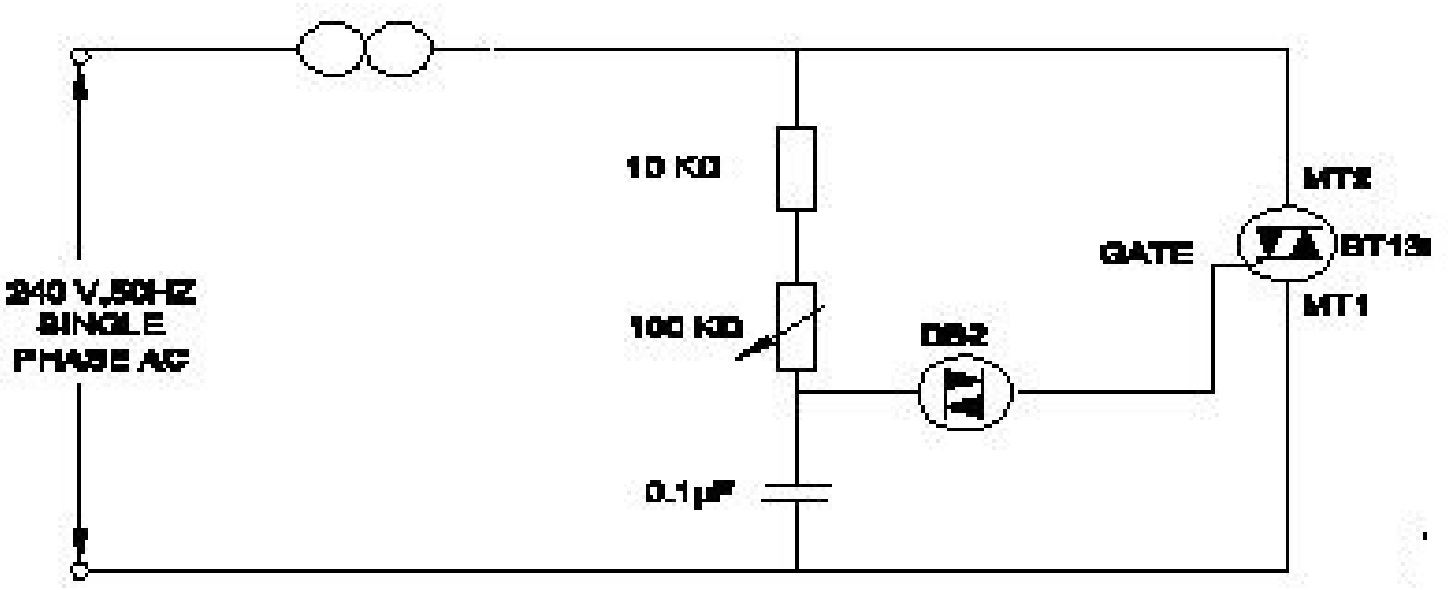

A) Electronic fan regulator | ವಿದ್ಯುನ್ಮಾನ ಅಭಿಮಾನಿ ನಿಯಂತ್ರಕ

B) Electronic voltage stabilizer | ಎಲೆಕ್ಟ್ರಾನಿಕ್ ವೋಲ್ಟೇಜ್ ಸ್ಟೆಬಿಲೈಜರ್

C) Electronic voltage multiplier | ಎಲೆಕ್ಟ್ರಾನಿಕ್ ವೋಲ್ಟೇಜ್ ಗುಣಕ

D) Electronic triggering circuit of SCR | SCR ಯ ವಿದ್ಯುನ್ಮಾನ ಪ್ರಚೋದಕ ಸರ್ಕ್ಯೂಟ್

---

24. What is the unit of Reluctance? | ರಿಲಕ್ಟನ್ಸ್ ಘಟಕ ಯಾವುದು?

A) Ampere turns / metre^2

B) Weber / metre

C) Ampere turns / Weber

D) Weber / metre^2

---

25. What is the name of the diagram as shown in the figure? | ಚಿತ್ರದಲ್ಲಿ ತೋರಿಸಿರುವಂತೆ ರೇಖಾಚಿತ್ರದ ಹೆಸರೇನು?

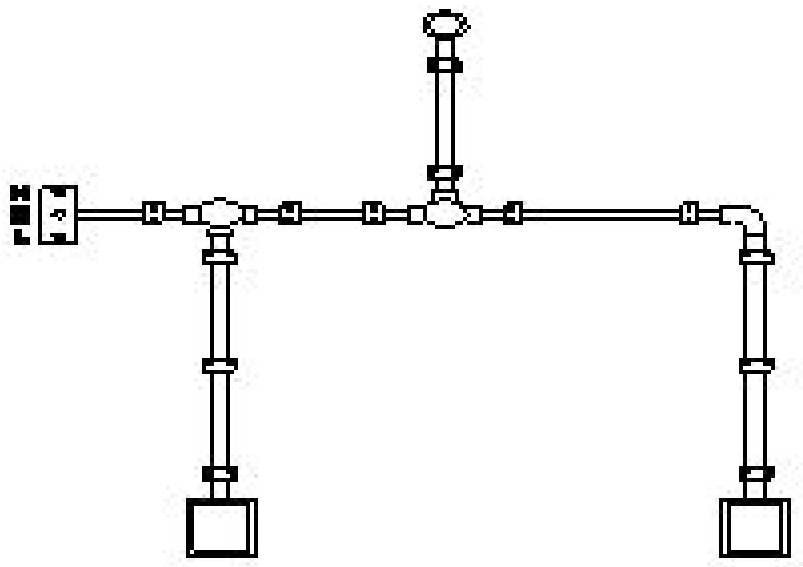

A) Wiring diagram | ವೈರಿಂಗ್ ರೇಖಾಚಿತ್ರ

B) Installation plan | ಅನುಸ್ಥಾಪನಾ ಯೋಜನೆ

C) Schematic diagram | ಸ್ಕಿಮ್ಯಾಟಿಕ್ ರೇಖಾಚಿತ್ರ

D) Layout plan | ಲೇಔಟ್ ಯೋಜನೆ

---

26. What is the name of the relay as shown in the figure? | ಚಿತ್ರದಲ್ಲಿ ತೋರಿಸಿರುವಂತೆ ರಿಲೇಯ ಹೆಸರೇನು?

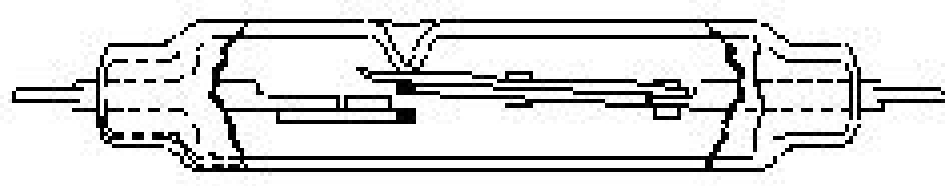

A) Mercury wetted contact relay | ಬುಧ ಸಂಪರ್ಕ ಸಂಪರ್ಕವನ್ನು ತೇವಗೊಳಿಸಿತು

B) Dry reed relay | ಡ್ರೈ ರೀಡ್ ರಿಲೇ

C) Impulse relay | ಇಂಪಲ್ಸ್ ರಿಲೇ

D) Ferreed relay | ಫೆರೀಡ್ ರಿಲೇ

---

27. Which is an absolute instrument? | ಇದು ಸಂಪೂರ್ಣ ಸಾಧನವಾಗಿದೆ?

A) Tangent galvanometer | ಟ್ಯಾಂಜೆಂಟ್ ಗಾಲ್ವನೋಮೀಟರ್

B) Ammeter | ಅಮ್ಮೀಟರ್

C) Volt meter | ವೋಲ್ಟ್ ಮೀಟರ್

D) Energy meter | ಎನರ್ಜಿ ಮೀಟರ್

---

28. Calculate the resistance value in R□ resistor? | R□ ಪ್ರತಿರೋಧಕದ ಪ್ರತಿರೋಧ ಮೌಲ್ಯವನ್ನು ಲೆಕ್ಕಾಚಾರ ಮಾಡಿ.

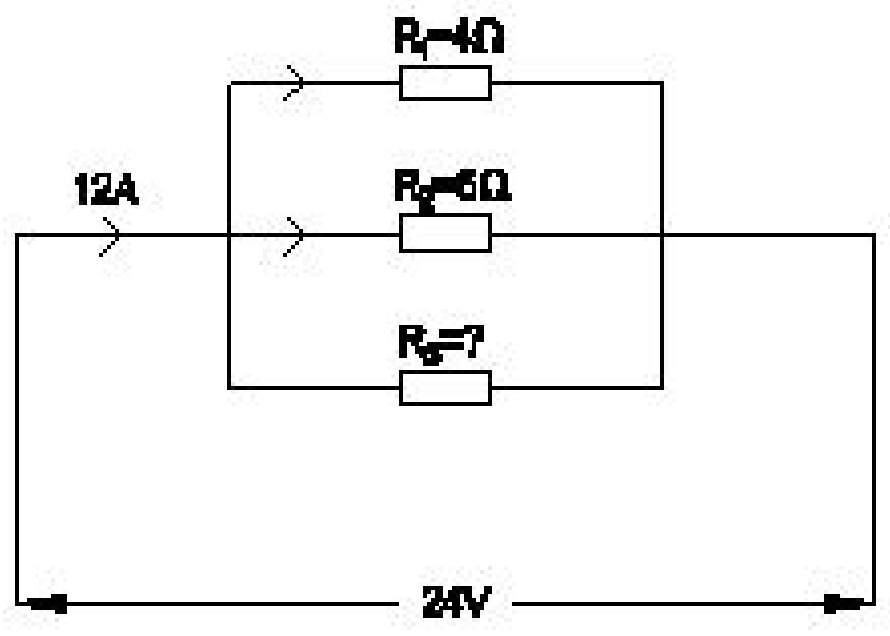

A) 6 Ohm

B) 12 Ohm

C) 4 Ohm

D) 8 Ohm

---

29. Which electrical equipment can be connected with 'L' series MCB? | 'L' ಸಿರೀಸ್ MCB ಯೊಂದಿಗೆ ಯಾವ ವಿದ್ಯುತ್ ಉಪಕರಣಗಳನ್ನು ಸಂಪರ್ಕಿಸಬಹುದು?

A) Motors | ವಿದ್ಯುತ್ ಯಂತ್ರಗಳು

B) General lighting | ಸಾಮಾನ್ಯ ಲೈಟಿಂಗ್

C) Halogen lamp | ಹ್ಯಾಲೊಜೆನ್ ದೀಪ

D) Air conditioner | ಹವಾ ನಿಯಂತ್ರಣ ಯಂತ್ರ

---

30. Which disposal method of waste save lot of energy? | ತ್ಯಾಜ್ಯದ ವಿಲೇವಾರಿ ವಿಧಾನವು ಬಹಳಷ್ಟು ಶಕ್ತಿಯನ್ನು ಉಳಿಸುತ್ತದೆ?

A) Incineration | ಭಸ್ಮೀಕರಣ

B) Recycling | ಮರುಬಳಕೆ

C) Land fill | ಜಮೀನು ಭರ್ತಿ

D) Composting | ಸಂಯೋಜನೆ

---

31. How to identify the moving iron type instrument? | ಚಲಿಸುವ ಕಬ್ಬಿಣದ ರೀತಿಯ ಸಲಕರಣೆಗಳನ್ನು ಹೇಗೆ ಗುರುತಿಸುವುದು?

A) Terminal marked (+) only | ಟರ್ಮಿನಲ್ ಗುರುತು (+) ಮಾತ್ರ

B) One terminal coloured red | ಒಂದು ಟರ್ಮಿನಲ್ ಬಣ್ಣದ ಕೆಂಪು

C) No terminal marking | ಟರ್ಮಿನಲ್ ಗುರುತು ಇಲ್ಲ

D) Terminal marked (+) and (-) | ಟರ್ಮಿನಲ್ ಗುರುತು (+) ಮತ್ತು (−)

32. What is the name of the part in power transformer as shown in the figure? | ಚಿತ್ರದಲ್ಲಿ ತೋರಿಸಿರುವಂತೆ ಪವರ್ ಟ್ರಾನ್ಸ್‌ಫಾರ್ಮರ್‌ನಲ್ಲಿರುವ ಭಾಗದ ಹೆಸರೇನು?

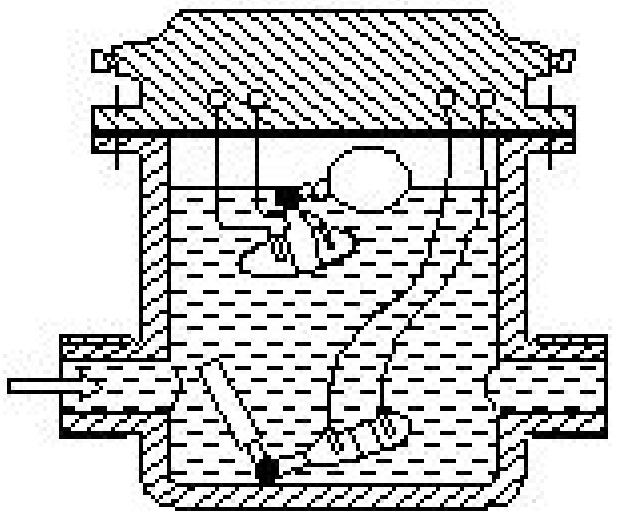

A) Explosion vent | ಸ್ಫೋಟ ಹೊಡೆತ

B) Buchholz relay | ಬುಚೋಲ್ಜ್ ರಿಲೇ

C) Tap charger | ಚಾರ್ಜರ್ ಟ್ಯಾಪ್ ಮಾಡಿ

D) Breather | ಬ್ರೀಥರ್

---

33. What is the name of the part marked 'X' as shown in the figure? | ಫೈಲ್ನ X ಎಂದು ಗುರುತಿಸಲಾದ ಭಾಗವನ್ನು ಹೆಸರಿಸಿ.

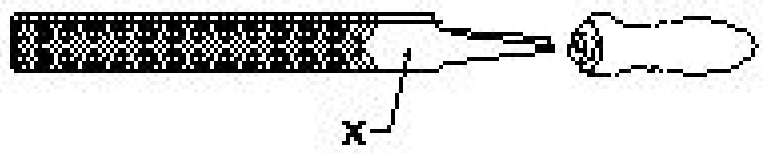

A) Heel | ಹೀಲ್

B) Point | ಪಾಯಿಂಟ್

C) Edge | ಎಡ್ಜ್

D) Tang | ಟ್ಯಾಂಗ್

---

34. What is the purpose of using laminated core in transformer? | ಟ್ರಾನ್ಸ್ಫಾರ್ಮರ್‌ನಲ್ಲಿ ಲ್ಯಾಮಿನೇಟ್ ಕೋರ್ ಅನ್ನು ಬಳಸುವ ಉದ್ದೇಶವೇನು?

A) Reduce hysteresis loss | ಹಿಸ್ಟರೀಸ್ ನಷ್ಟವನ್ನು ಕಡಿಮೆ ಮಾಡಿ

B) Reduce eddy current loss | ಎಡ್ಡಿಪ್ರಸ್ತುತ ನಷ್ಟವನ್ನು ಕಡಿಮೆ ಮಾಡಿ

C) Reduce mechanical loss | ಯಾಂತ್ರಿಕ ನಷ್ಟವನ್ನು ಕಡಿಮೆ ಮಾಡಿ

D) Reduce copper loss | ತಾಮ್ರದ ನಷ್ಟವನ್ನು ಕಡಿಮೆ ಮಾಡಿ

---

35. Calculate the impedance of the circuit R = 5Ω, XL= 36Ω and XC = 24 Ω. | ಸರ್ಕ್ಯೂಟ್ R = 5Ω, XL = 36Ω ಮತ್ತು XC = 24 Ω ನ ಪ್ರತಿರೋಧವನ್ನು ಲೆಕ್ಕಹಾಕಿ.

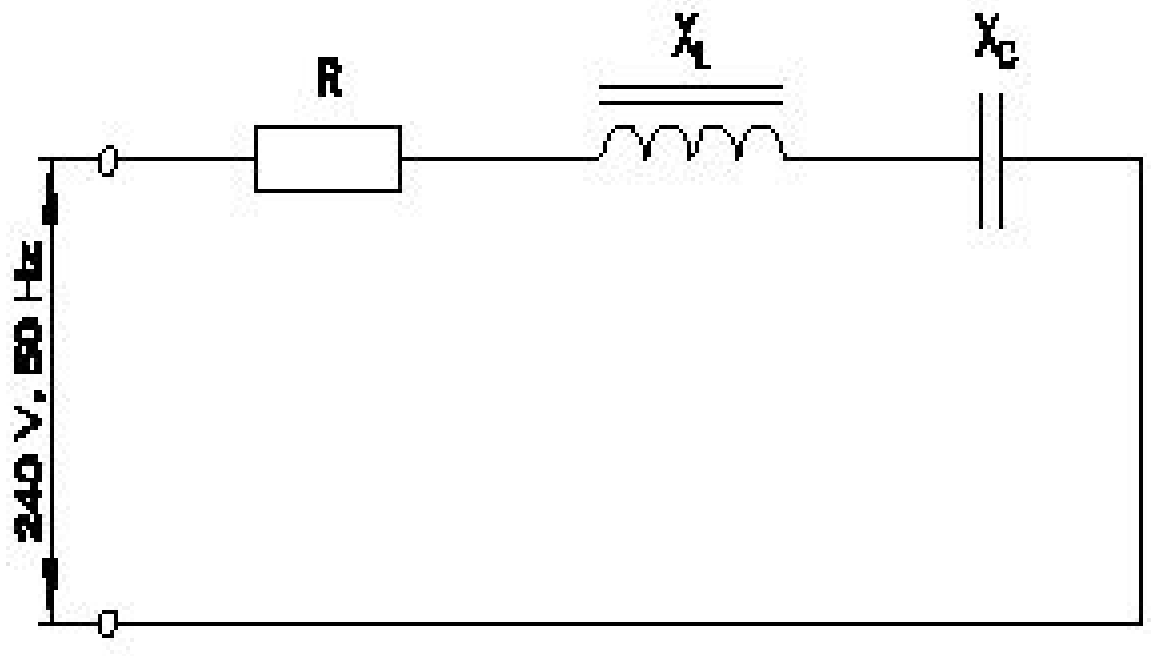

A) 65 Ω

B) 13 Ω

C) 69 Ω

D) 12 Ω

---

36. How the error in the readings of the potential transformer can be reduced? | ಪೋಟೆನ್ಷಿಯಲ್ ಟ್ರಾನ್ಸ್ಫಾರ್ಮರ್ ರೀಡಿಂಗ್ ದಲ್ಲಿನ ದೋಷವನ್ನು ಹೇಗೆ ಕಡಿಮೆಗೊಳಿಸಬಹುದು?

A) Using thick laminated core | ದಪ್ಪ ಲ್ಯಾಮಿನೇಟೆಡ್ ಕೋರ್ ಅನ್ನು ಬಳಸುವುದು

B) Using low flux density material | ಕಡಿಮೆ ಫ್ಲಕ್ಸ್ ಸಾಂದ್ರತೆಯ ವಸ್ತುವನ್ನು ಬಳಸುವುದು

C) Providing low quality core material | ಕಡಿಮೆ ಗುಣಮಟ್ಟದ ಕೋರ್ ಮೆಟೀರಿಯಲ್ ಅನ್ನು ಒದಗಿಸುವುದು

D) Providing long magnetic path | ದೀಪ ಕಾಂತಿಯ ಮಾರ್ಗವನ್ನು ಒದಗಿಸುವುದು.

---

37. Which load condition the phase currents of a 3 phase system are different? | 3 ಹಂತದ ವ್ಯವಸ್ಥೆಯ ಹಂತದ ಪ್ರವಾಹಗಳು ಯಾವ ಲೋಡ್ ಸ್ಥಿತಿಯಲ್ಲಿ ವಿಭಿನ್ನವಾಗಿವೆ?

A) At balanced RLC load | ಸಮತೋಲಿತ RLC ಲೋಡ್‌ನಲ್ಲಿ

B) At balanced resistive load | ಸಮತೋಲಿತ ಪ್ರತಿರೋಧಕ ಹೊರೆಯಲ್ಲಿ

C) At unbalanced load | ಅಸಮತೋಲಿತ ಹೊರೆಯಲ್ಲಿ

D) At balanced inductive load | ಸಮತೋಲಿತ ಇಂಡಕ್ಟಿವ್ ಲೋಡ್‌ನಲ್ಲಿ

---

38. What is starving in extinguishing of fire? | ಬೆಂಕಿಯನ್ನು ಆವರಿಸುವಲ್ಲಿ ಸ್ಟಾರ್ವ್ವಿಂದ ಏನು ಇದೆ?

A) Removing fuel element from the fire | ಬೆಂಕಿಯಿಂದ ಇಂಧನ ಅಂಶವನ್ನು ತೆಗೆದುಹಾಕಲಾಗುತ್ತಿದೆ

B) Preventing oxygen supply to the fire | ಬೆಂಕಿಗೆ ಆಮ್ಲಜನಕದ ಪೂರೈಕೆಯನ್ನು ತಡೆಗಟ್ಟುವುದು

C) Using water to cool the fire | ಬೆಂಕಿಯನ್ನು ತಣ್ಣಗಾಗಲು ನೀರನ್ನು ಬಳಸಿ

D) Adding fuel to the fire | ಬೆಂಕಿಗೆ ಇಂಧನವನ್ನು ಸೇರಿಸುವುದು

---

39. What is the name of the error if the energy meter disc rotating continuously on no load? | ಎನರ್ಜಿ ಮೀಟರ್ ಡಿಸ್ಕ್ ಯಾವುದೇ ಹೊರೆ ಇಲ್ಲ ನಿರಂತರವಾಗಿ ತಿರುಗುತ್ತಿದ್ದರೆ ದೋಷದ ಹೆಸರೇನು?

A) Friction error | ಘರ್ಷಣೆ ದೋಷ

B) Phase error | ಹಂತ ದೋಷ

C) Speed error | ಸ್ಪೀಡ್ ದೋಷ

D) Creeping error | ತೆವಳುವ ದೋಷ

---

40. What is the function of bimetallic strip in the MCB? | MCB ಯಲ್ಲಿ ಬೈಮೆಟಾಲಿಕ್ ಸ್ಟ್ರಿಪ್ನ ಕಾರ್ಯವೇನು?

A) Over load protection | ಓವರ್ ಲೋಡ್ ಪ್ರೊಟೆಕ್ಷನ್

B) Earth leakage protection | ಭೂಮಿಯ ಸೋರಿಕೆ ರಕ್ಷಣೆ

C) Over voltage protection | ವೋಲ್ಟೇಜ್ ರಕ್ಷಣೆಯ ಮೇಲೆ

D) Short circuit protection | ಶಾರ್ಟ್ ಸರ್ಕ್ಯೂಟ್ ರಕ್ಷಣೆ

---

41. What is the name of the part marked 'X' of the belted U.G cable as shown in the figure? | ಚಿತ್ರದಲ್ಲಿ ತೋರಿಸಿರುವಂತೆ ಬೆಲ್ಟೆಡ್ U.G ಕೇಬಲ್‌ನ X ಎಂದು ಗುರುತಿಸಲಾದ ಭಾಗದ ಹೆಸರೇನು?

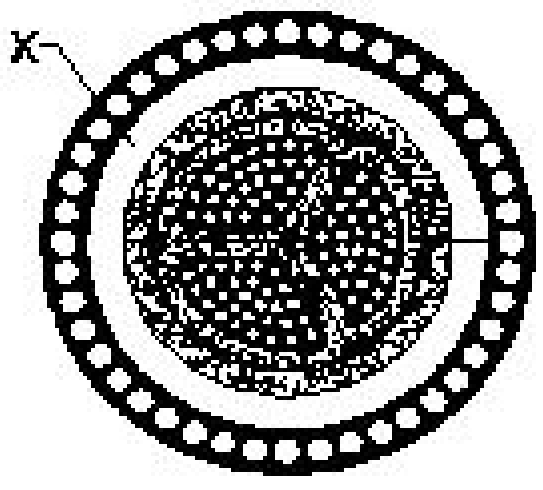

A) Jute filling | ಸೆಣಬಿನ ಭರ್ತಿ
B) Paper insulation | ಪೇಪರ್ ನಿರೋಧನ
C) Armouring | ಆರ್ಮರಿಂಗ್
D) Lead sheath | ಲೀಡ್ ಪೊರೆ

42. Which is the diamagnetic substance? | ವಜ್ರಯುಕ್ತ ಪದಾರ್ಥ ಯಾವುದು?

A) Nickel | ನಿಕಲ್
B) Platinum | ಪ್ಲಾಟಿನಮ್
C) Wood | ವುಡ್
D) Manganese | ಮ್ಯಾಂಗನೀಸ್

43. How many two way switches minimum required in godown wiring circuit to control four lamps? | ನಾಲ್ಕು ದೀಪಗಳನ್ನು ನಿಯಂತ್ರಿಸಲು ಗೋಡೌನ್ ವೈರಿಂಗ್ ಸರ್ಕ್ಯೂಟ್‌ನಲ್ಲಿ ಕನಿಷ್ಠ ಎರಡು ಮಾರ್ಗದ ಸ್ವಿಚ್‌ಗಳು ಎಷ್ಟು ಅಗತ್ಯವಿದೆ?

A) 4
B) 5
C) 2
D) 3

44. What is the ratio between the peak value and RMS value? | ಗರಿಷ್ಠ ಮೌಲ್ಯ ಮತ್ತು RMS ಮೌಲ್ಯದ ನಡುವಿನ ಅನುಪಾತ ಏನು?

A) RMS factor | RMS ಫ್ಯಾಕ್ಟರ್
B) Form factor | ಫಾರ್ಮ್ ಫ್ಯಾಕ್ಟರ್
C) Effective value | ಪರಿಣಾಮಕಾರಿ ಮೌಲ್ಯ
D) Peak factor | ಪೀಕ್ ಫ್ಯಾಕ್ಟರ್

45. What is the name of meter as shown in the figure? | ಚಿತ್ರದಲ್ಲಿ ತೋರಿಸಿರುವಂತೆ ಮೀಟರ್‌ನ ಹೆಸರೇನು?

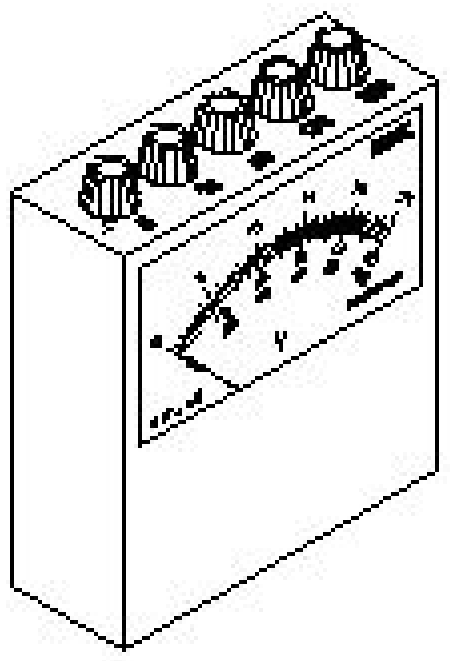

A) AC and DC multirange voltmeter | ಎಸಿ ಮತ್ತು ಡಿಸಿ ಮಲ್ಟಿರಾಂಜ್ ವೋಲ್ಟ್ಮೀಟರ್
B) DC multirange voltmeter | ಡಿಸಿ ಮಲ್ಟಿರಾಂಜ್ ವೋಲ್ಟ್ಮೀಟರ್
C) AC and DC multirange ammeter | ಎಸಿ ಮತ್ತು ಡಿಸಿ ಮಲ್ಟಿರಾಂಜ್ ಅಮ್ಮೀಟರ್
D) AC multirange ammeter | ಎಸಿ ಮಲ್ಟಿರಾಂಜ್ ಅಮ್ಮೀಟರ್

46. Which type of energy meter works with neutral connection? | ಯಾವ ರೀತಿಯ ಶಕ್ತಿಯ ಮೀಟರ್ ನರ ಸಂಪರ್ಕದೊಂದಿಗೆ ಕಾರ್ಯನಿರ್ವಹಿಸುತ್ತದೆ?

A) Three phase three element | ಮೂರು ಹಂತ ಮೂರು ಅಂಶ
B) Three phase two element | ಮೂರು ಹಂತದ ಎರಡು ಅಂಶ
C) Single phase single element | ಒಂದೇ ಹಂತದ ಒಂದೇ ಅಂಶ
D) Three phase two element with CT & PT | CT & PT ಯೊಂದಿಗಿನ ಮೂರು ಹಂತದ ಎರಡು ಅಂಶ

47. Which is the position to use the instrument provided with gravity control? | ಗುರುತ್ವ ನಿಯಂತ್ರಣದೊಂದಿಗೆ ಒದಗಿಸಲಾದ ಸಾಧನವನ್ನು ಬಳಸುವ ಸ್ಥಾನ ಯಾವುದು?

A) Vertical position | ಲಂಬ ಸ್ಥಾನ
B) Horizontal position | ಅಡ್ಡ ಸ್ಥಾನ
C) Any position | ಯಾವುದೇ ಸ್ಥಾನ
D) Inclined position | ಇಳಿಜಾರಾದ ಸ್ಥಾನ

48. What is the name of the lamp as shown in the figure? | ಚಿತ್ರದಲ್ಲಿ ತೋರಿಸಿರುವಂತೆ ದೀಪದ ಹೆಸರೇನು?

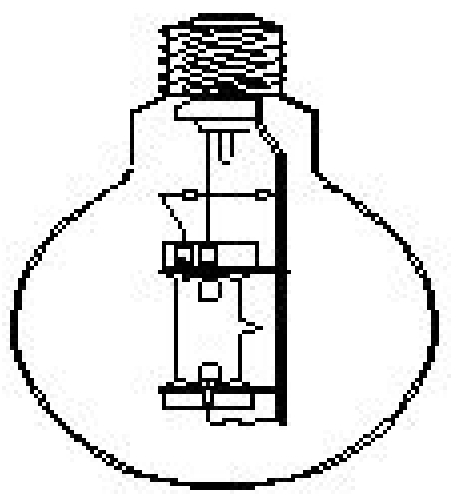

A) https://mocktest2.nimiquestionbank.in/qb/images/qb_question_images/ELE1-8-1135.JPG
B) MB type HPMV lamp | MB ಟೈಪ್ HPMV ದೀಪ
C) MA type HPMV lamp | MA ಟೈಪ್ HPMV ದೀಪ
D) HP metal halide lamp | ಎಚ್ಪಿ ಲೋಹದ ಹಾಲೈಡ್ ದೀಪ

49. What is the purpose of 'serving' layer in underground cable? | ಭೂಗತ ಕೇಬಲ್ನಲ್ಲಿ □ಸೇವೆ□ ಪದರದ ಉದ್ದೇಶವೇನು?

A) Protect metallic sheath against corrosion | ತುಕ್ಕು ವಿರುದ್ಧ ಲೋಹೀಯ ಪೊರೆ ರಕ್ಷಿಸಿ
B) Protect the cable from mechanical injury | ಯಾಂತ್ರಿಕ ಗಾಯದಿಂದ ಕೇಬಲ್ ರಕ್ಷಿಸಿ
C) Protect armouring from atmospheric condition | ವಾತಾವರಣದ ಸ್ಥಿತಿಯಿಂದ ರಕ್ಷಾಕವಚವನ್ನು ರಕ್ಷಿಸಿ
D) Protect the cable from mechanical vibration | ಕೇಬಲ್ ಅನ್ನು ಯಾಂತ್ರಿಕ ಕಂಪನದಿಂದ ರಕ್ಷಿಸಿ

50. Which formula is used to calculate the heat generated as per Joules law? | ಜೌಲ್ಸ್ ಕಾನೂನಿನ ಪ್ರಕಾರ ಉತ್ಪತ್ತಿಯಾದ ಶಾಖವನ್ನು ಲೆಕ್ಕಾಚಾರ ಮಾಡಲು ಯಾವ ಸೂತ್ರವನ್ನು ಬಳಸಲಾಗುತ್ತದೆ?

A) Heat generated = IRT / J cal
B) Heat generated = IR^2T / J cal
C) Heat generated = I^2RT / J cal
D) Heat generated = $(IR)^2$ T / J cal