Govt ITI Vitla

ITI Quiz - 15-Sep-2026 09:57 AM

Q. ID: ITISKILL9547KL | September 2026

56.00% 14 / 25

Student Name	Jagadeesha	Access Code	0029
Attempt No.	#1	Completion Time	11:09 AM
Rank	#8	Total Questions	25

14 SCORE	**25** MAX MARKS	**14** CORRECT	**11** INCORRECT

Answer Review

Q1 INCORRECT Which type of toe caps are used to avoid crushing of feet at the time of shifting equipments?

A. Steel toe caps

B. Plastic toe caps

C. Rubber toe caps

D. Leather toe caps

Q2 CORRECT How the gas and liquefied gases are classified

A. Class A fire

B. Class B fire

C. Class C fire

D. Class D fire

Q3 INCORRECT Which fire extinguisher is used to put off class A type of fire?

A. Foam type

B. Jet of water

C. Dry powdered

D. Carbon-di-oxide

Q4 CORRECT Which method is used for blanketing with foam to extinguish the fire?

A. Cooling

B. Starving

C. Smothering

D. Heating

Q5 CORRECT What is the shape of warning sign board?

A. Square shape

B. Circular shape

C. Triangular shape

D. Hexagonal shape

Q6 CORRECT What is the shape of prohibition sign?

A. Square

B. Circular

C. Triangular

D. Rectangular

Q7 CORRECT What is the use of screw driver?

A. Hold the screws

B. Tighten or loosen screws

C. Tighten or loosen bolts

D. Tighten or loosen rivets

Q8 INCORRECT What is the purpose of wood rasp file?

A. 90 Degree corners

B. Cutting metals

C. Finishing flat edges

D. Preliminary rough work

Q9 CORRECT What is the reason for electric fire?

A. Deviation

B. Open circuit

C. Overloading

D. Proper earthing

Q10 INCORRECT How the overlapping of excess sheet metal causing bulge at seam and edge is prevented?

A. Mallet

B. Notches

C. L - angles

D. Square stake

Q11 CORRECT What are the two classifications of system of units?

A. British and Metric

B. Gravitational and non-gravitational

C. Fundamental and derived

D. Metric and International

Q12 INCORRECT What are fundamental units?

A. Length, Mass, Volume

B. Length, Mass, Time

C. Length, Mass, Area

D. Length, Pressure, Volume

Q13 CORRECT What denotes letter M in MKS system?

A. Mile

B. Meter

C. Millimeter

D. Micron

Q14 CORRECT How many millimetres are there in 1 inch?

A. 2.54 mm

B. 25.4 mm

C. 24.5 mm

D. 2.45 mm

Q15 INCORRECT What is the HCF of 18, 42, 24?

A. 2

B. 6

C. 18

D. 24

Q16 CORRECT 1). Identify the name of tool? | ಉಪಕರಣದ ಹೆಸರನ್ನು ಗುರುತಿಸುವುದೇ?

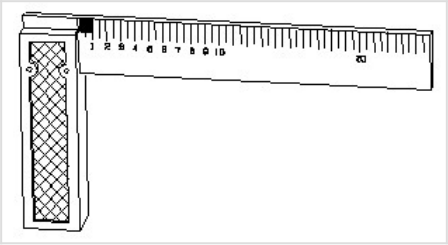

A. Try square | ಟ್ರೈ ಸ್ಕ್ವೇರ್

B. Surface gauge | ಮೇಲ್ಮೈ ಮಾಪಕ

C. Steel rule | ಸ್ಟೀಲ್ ರೂಲ್

D. Feeler gauge | ಫೀಲರ್ ಗೇಜ್

Q17 INCORRECT Identify the conventional symbol of material? | ವಸ್ತುವಿನ ಕನ್ವೇಷನಲ್ ಚಿಹ್ನೆಯನ್ನು ಗುರುತಿಸಿ?

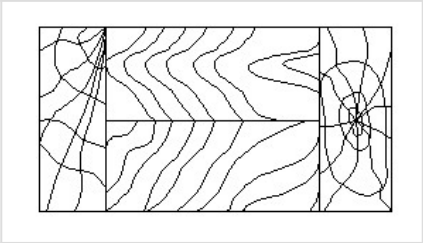

A. Lead | ಲೀಡ್

B. Glass | ಗಾಜು

C. Wood | ಮರ

D. Paper | ಪೇಪರ್

Q18 CORRECT Identify the name of tool? | ಉಪಕರಣದ ಹೆಸರನ್ನು ಗುರುತಿಸುವುದೇ?

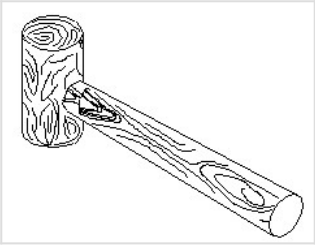

A. Ball pein hammer | ಬಾಲ್ ಪೆನ್ ಸುತ್ತಿಗೆ

B. Mallet | ಮ್ಯಾಲೆಟ್ □

C. Cross pein hammer | ಕ್ರಾಸ್ ಪೀನ್ ಸುತ್ತಿಗೆ

D. Straight pein hammer |ಸ್ಟ್ರೆಟ್ ಪೆಯಿನ್ ಸುತ್ತಿಗೆ

Q19 CORRECT Identify the conventional symbol of material? | ವಸ್ತುವಿನ ಕನ್ವೇಷನಲ್ ಚಿಹ್ನೆಯನ್ನು ಗುರುತಿಸಿ?

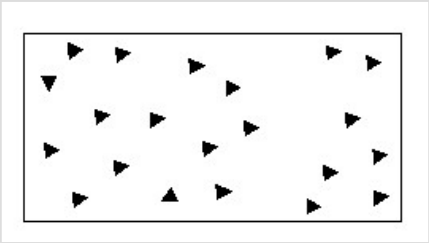

A. Steel | ಸ್ಟೀಲ್

B. Wood | ಮರ

C. Glass | ಗಾಜು

D. Concrete | ಕಾಂಕ್ರೀಟ್ □

Q20 INCORRECT Identify the conventional symbol of material? | ವಸ್ತುವಿನ ಕನ್ವೇಷನಲ್ ಚಿಹ್ನೆಯನ್ನು ಗುರುತಿಸಿ?

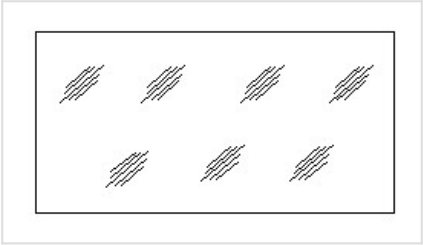

A. Concrete | ಕಾಂಕ್ರೀಟ್ □

B. Steel | ಸ್ಟೀಲ್

C. Wood | ಮರ

D. Glass | ಗಾಜು □

Q21 CORRECT A person with a growth mindset is always willing to _____. | ಬೆಳವಣಿಗೆಯ ಮನಸ್ಥಿತಿ ಹೊಂದಿರುವ ವ್ಯಕ್ತಿಯು ಯಾವಾಗಲೂ _____ ಸಿದ್ಧರಿದ್ದಾರೆ.

A. relax | ವಿಶ್ರಾಂತಿ

B. grow, change, learn | ಬೆಳೆಯಿರಿ, ಬದಲಿಸಿ, ಕಲಿಯಿರಿ □

C. keep quiet | ಮೌನವಾಗಿರಿ

D. become rich |ಶ್ರೀಮಂತರಾಗುತ್ತಾರೆ

Q22 INCORRECT Jobs that have become outdated in the past 5 years _____. | ಕಳೆದ 5 ವರ್ಷಗಳಲ್ಲಿ ಹಳತಾದ ಕೆಲಸಗಳು _____

A. STD booth | STD ಬೂತ್ □

B. ola | ಓಲ □

C. uber | ಉಬರ್

D. swiggy | ಸ್ವಿಗ್ಗಿ

Q23 INCORRECT To be in a job or work is _____. | ಕೆಲಸ ಅಥವಾ ಕೆಲಸದಲ್ಲಿ ಇರುವುದು ಎಂದರೆ _ _ _ _ _ _ _ _

A. employ | ಉದ್ಯೋಗಿ

B. skill | ಕೌಶಲ್ಯ

C. knowledge | ಜ್ಞಾನ

D. aptitude | ಯೋಗ್ಯತೆ

Q24 INCORRECT Ethics means _____. | ನೀತಿಶಾಸ್ತ್ರ ಎಂದರೆ _ _ _ _ _ _ _ _

A. decide what is right and wrong for a human conduct | ಮಾನವ ನಡವಳಿಕೆಗೆ ಯಾವುದು ಸರಿ ಮತ್ತು ತಪ್ಪು ಎಂದು ನಿರ್ಧರಿಸಿ

B. name of a city | ಒಂದು ನಗರದ ಹೆಸರು

C. employability skills | ಉದ್ಯೋಗ ಕೌಶಲ್ಯಗಳು

D. not relevant to society | ಸಮಾಜಕ್ಕೆ ಸಂಬಂಧಿಸಿಲ್ಲ

Q25 CORRECT _____ is a brief statement about purpose and principles of the constitution. | _____ ಸಂವಿಧಾನದ ಉದ್ದೇಶ ಮತ್ತು ತತ್ವಗಳ ಸಂಕ್ಷಿಪ್ತ ಹೇಳಿಕೆಯಾಗಿದೆ.

A. Syllabus | ಪಠ್ಯಕ್ರಮ

B. Module | ಮಾಡ್ಯೂಲ್

C. The preamble | ಪೀಠಿಕೆ

D. Unit | ಘಟಕ